ФГОБУ ВО «Финансовый университет при Правительстве Российской Федерации»

ВСЕРОССИЙСКАЯ ОЛИМПИАДА
ШКОЛЬНИКОВ «МИССИЯ ВЫПОЛНИМА.
ТВОЕ ПРИЗВАНИЕ – ФИНАНСИСТ!»
ПО ПРЕДМЕТУ **ИСТОРИЯ**
2023-2024 уч. года

ВАРИАНТ II

Задание 1. Самостоятельно определив основание, разделите указанные события на 2 группы. В каждой группе расположите события в хронологической последовательности, используя для этого номера, под которыми они представлены. В ответ выпишите в соответствующем порядке номера, под которыми указаны события.

1. Первый в истории беспосадочный перелет из СССР в США.
2. Создание Лиги Наций.
3. Разгром Хазарского каганата.
4. Штурм Зееловских высот.
5. Рождение Сиддхартхи Гаутамы.
6. Съезд князей в Любече.
7. Начало Столетней войны.
8. Княгиня Ольга принимает крещение в Константинополе.
9. Битва при Молодях .
10. Жители Земли впервые в истории совершили посадку на поверхность Луны.
11. Изобретение пенициллина.
12. Открытие Суэцкого канала.
13. Сооружение триумфальной колонны Траяна.
14. Первые Олимпийские игры.
15. Написание Андреем Курбским мемуарного памфлета «История о Великом князе Московском».
16. Операция «Буря в пустыне».
17. Открытие Антарктиды.
18. Чесменский бой.
19. Снятие блокады Ленинграда.
20. Первая публикация романа «Хитроумный идальго Дон-Кихот Ламанчский».

Ответ:

Отечественная история – 8; 3; 6; 9; 15; 18; 17; 1; 19; 4.

Зарубежная история – 14; 5; 13; 7; 20; 12; 2; 11; 10; 16.

Критерии оценки:

1. **За верное деление на 2 группы (1 - отечественная история; 2 - зарубежная история) - 2 балла.**
2. **В случае допущения ошибки выставляется 0 баллов за все задание.**
3. **Правильный порядок в 1 группе - 2 балла.**
4. **Правильный порядок во 2 группе - 2 балла.**
5. **Допускается 1 ошибка в каждой группе, оценка снижается на 1 балл.**
6. **Итоговая максимальная оценка - 6 баллов.**

Задание 2. Выполните следующие действия:

а) укажите в таблице название города, в котором расположена изображенная на плане крепость;

б) соотнесите их с гербами городов;

в) внесите информацию в таблицу в порядке дат основания этих городов;

г) занесите в таблицу соответствующее городу почетное звание («Город-Герой», «Город воинской славы», «Город трудовой доблести», «Город партизанской славы», «Город первого салюта»), если таковое имеется.

1.

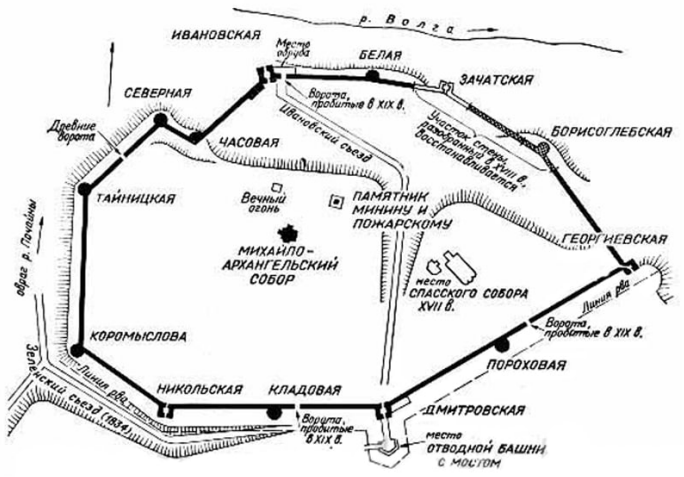

2.

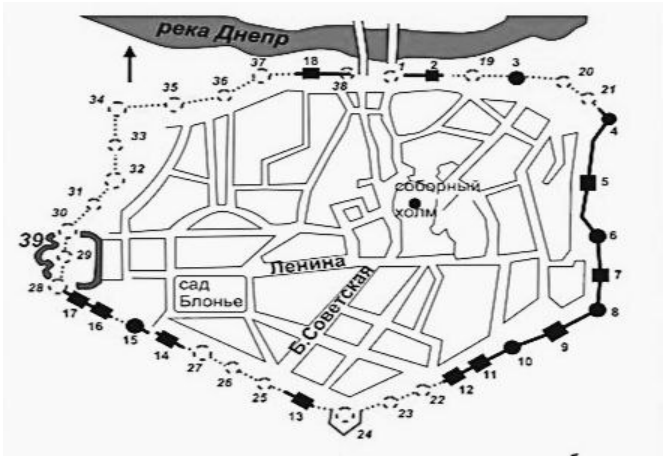

3.

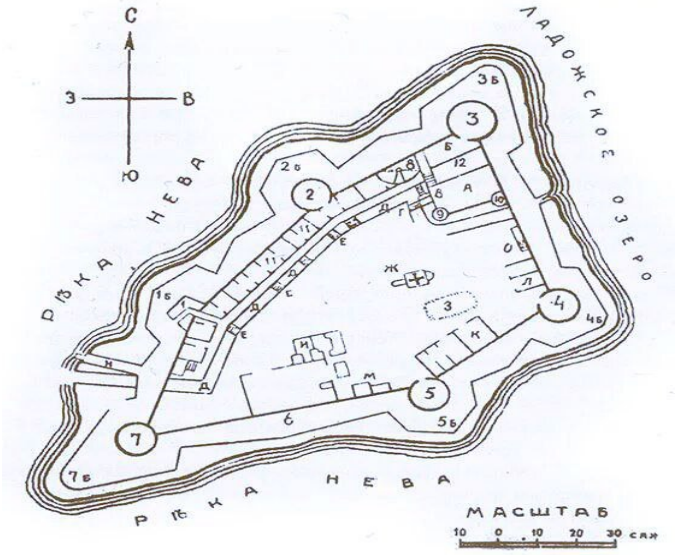

4.



Ответ:

План крепости	2	4	1	3
Название города	Смоленск	Псков	Нижний Новгород	Крепость Орешек
Герб	Г	В	Б	А
Почетное звание	«Город-Герой»	«Город воинской славы»	«Город трудовой доблести и славы»	-

Критерии оценки:

1. За верное название города и правильное соотнесение с планом крепости – 2 балла.

2. За верный выбор герба – 1 балл.

3. За верное указание почетного звания города – 1 балл.

4. Итоговая максимальная оценка – 16 баллов

Задание 3. Выберите по 1 верному ответу в каждом задании и занесите выбранные ответы в таблицу:
3.1 Прочтите отрывок из исторического источника и укажите пропущенное в нем название города.

3.1 Прочтите отрывок из исторического источника и укажите пропущенное в нем название города.

«В лето 1240. Пришел Батый к (…) с великой силой, со множеством силы своей и окружил город, и обнес его частоколом, и был город в великом стеснении. И Батый был у города, и воины его окружали город, нельзя было слышать от скрипения множества телег его, от рева верблюдов его, от ржания стад коней его. И была вся Русская земля наполнена ратными людьми.

(…)

Поставил же Батый стенобитные орудия у города подле Ляшских ворот потому, что здесь находились овраги. Орудия били беспрестанно день и ночь и пробивали стены. И взошли горожане на стены, и тут было видно, как ломались копья и щиты разбивались в щепки, и стрелы помрачали свет для побежденных. Когда же Дмитр был ранен, татары взошли и занимали их в тот день и в ту ночь.

Горожане же построили новую стену около церкви Богородицы Десятинной. На другой же день татары пошли приступом на них, и был между ними сильный бой. Люди же взбежали на церковь и на церковные своды со своим имуществом, и церковные стены от тяжести рухнули. И взят был город воинами. Дмитра же татары взяли в плен раненым и не убили ради его храбрости.»

1) Владимир 2) Киев 3) Суздаль 4) Тверь

3.2 Прочтите отрывок из труда историка и укажите имя князя, в период правления которого происходили описываемые события.

«Царь же со всеми татарами пошел по Литовской земле мимо Мценска, Любутска и Одоева и, придя, стал у Воротынска, ожидая, что король придет к нему на помощь. Король же не пришел к нему и сил своих не послал — были у него свои междоусобия, воевал тогда Менгли-Гирей, царь перекопский, королевскую Подольскую землю, помогая великому князю. Ахмат же пришел к Угре со всеми силами, желая перейти реку.»

1) Иван Иванович 2) Михаил Андреевич 3) Иван Васильевич 4) Дмитрий

3.3 Прочтите отрывок из труда историка и укажите понятие, с которым связана ситуация, описанная в нем.

Ввел этот порядок Ярослав Мудрый в начале XI века в своей Русской правде. От этого государство имело большую выгоду. Правительству не приходилось тратить казну на содержание своих служащих. Кроме того, значительно упрощался процесс передачи средств необходимых для проживания.

Княжеский наместник приезжал на службу, а местное население давало ему некоторые продукты пропитания, например, рыбу, хлеб, мясо. Не забывали и про лошадей, их кормили овсом. Иногда наместники взимали деньги в форме пошлин.

Они были ответственными за вершение правосудия и сбор налогов. Ещё были сборщики штрафов и строители. Они хорошо были защищены государством: за их убийства или увечья назначались огромные штрафы. Такая должность давалась и за военные заслуги или заслуги по службе. Умер боярин Никодим П. и остались боярские дети, но они получили право после смерти отца на получение продовольствия. И поскольку справлялись они со своими обязанностями исправно, то закрепили за ними право на пять лет, а потом и еще…

1) местничество 2) наследование 3) кормление 4) чересполосица

3.4 Прочтите отрывок из текста и выберите одно из предложенных слов.

«(…) назначался чиновник, ведавший хозяйством и наблюдавший за порядком в учреждениях. Иногда (…) осуществляли телесные наказания, как, например, Жеребятников в «Записках из Мертвого дома» Достоевского. Но были на этой должности и сугубо мирные люди: Яичница в «Женитьбе» Гоголя, Червяков в рассказе Чехова «Смерть чиновника».

1) надсмотрщик 2) экзекутор 3) попечитель 4) стряпчий

3.5 Прочтите отрывок из текста и выберите одно из предложенных слов.

« (…) - это один из приемов художественной обработки изделий из металлов. Его сущность заключается в том, что изделие украшается мельчайшими металлическими шариками, уложенными и припаянными на его

поверхности в виде треугольников, ромбов, веточек, гроздьев и т. п. Искусство это с давних пор было известно в Египте, Микенах, Греции, Византии, Древней Руси. Примерами необычайно высокого мастерства, которого достигли древние ювелиры, могут служить серьги из Феодосии (IV в. до н. э., Государственный Эрмитаж), золотые подвески и серьги, работы византийских мастеров VII—VIII вв., найденные у с. Глодосы и в Ольвии, серебряные звездчатые колты рубежа VII—XIII вв. из Тереховского клада (Государственный Русский музей).

М. М. Постникова-Лосева, касаясь этой технологии, отмечает следующее: «На очень древних изделиях, украшенных сканью и (…), припой совсем не заметен, поражают необыкновенная чистота и четкость работы. Совершенно непонятным кажется, как могли быть укреплены тончайшие нити скани и едва видимые простым глазом зернышки на таких украшениях, как знаменитая золотая серьга с квадригой из Феодосии...»

1) зернь 2) скань 3) финифть 4) филигрань

Ответы:

3.1	3.2	3.3	3.4	3.5
2	3	3	2	1

Критерии оценки:

1. За каждый верно выбранный ответ - 1 балл.

2. Итоговая максимальная оценка - 5 баллов.

Задание 4. Вам необходимо определить какому выдающемуся полководцу посвящена большая часть информации, размещенной ниже (7 блоков связаны с жизнью и деятельностью этого полководца, а 1 является лишним):

1 **Отец полководца был крупным военным инженером. Начав военную службу при Петре 1, он участвовал в войнах 18 века. Уйдя в отставку в чине генерал-поручика, продолжал службу по гражданскому ведомству. Генерал-поручик и сенатор, служивший 30 лет в инженерном корпусе и участвовавший в первой русско-турецкой войне под знаменами П.А. Румянцева-Задунайского, был человеком чрезвычайно умным, разносторонне образованным, за что и прозвали его «разумной книгой». Его имя стало особенно известно в связи с разработкой проекта канала, построенного в Петербурге при Екатерине 2 для избавления жителей столицы от гибельных наводнений полновод-ной Невы.**	**2** **«Дипломатическая карьера сколь ни плутовата, но, ей-богу, не так мудрена, как военная, ежели ее делать как надобно…»**	**3** ***«Я получил и чины, и ленты, и раны; но лучшею наградою почитаю то, когда обо мне говорят: он настоящий русский солдат».***
4 	**5** 	**6**

7	8
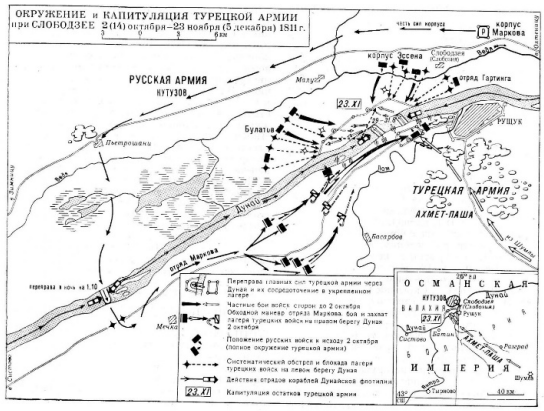	

4.1 Определите и запишите в ответ Ф.И.О. полководца.

4.2 Выпишите цифры, под которыми размещена информация о нем.

4.3 Составьте связный рассказ о жизни и деятельности полководца. В обязательном порядке используя данную в этом задании информацию. Ответ принимается при объеме не менее 15 предложений.

Ответ:

Ответ:

4.1 Кутузов Михаил Илларионович.

4.2 1, 2, 3, 4, 5, 7, 8.

4.3

_____

_____

_____

_____

_____

_____

Критерии оценки:

1. За верное указание фамилии, имени и отчества полководца-2 балла.

2. За верное указание цифр, под которыми размещена информация о нем – 2 балла.

3. За связный рассказ с опорой на исторические факты с использованием материалов предложенных в задании – 6 баллов.

4. Итоговая максимальная оценка – 10 баллов.

Задание 5. Внимательно изучите иллюстрацию:

5.1 Укажите современное название здания.

5.2 Выпишите цифры, под которыми размещены верные высказывания.

1. В 18 веке на месте этого вокзала была граница Москвы - Камер-Коллежский вал.

2. В 1870 году вокзал назывался Смоленский, а в 1871 году переименовали в Брянский.

3. В 1912 году в честь 100-летия победы над Наполеоном вокзал переименовали в Александровский.

4. С 1922 года вокзал назывался Белорусско-Балтийским, а с 1936 года – просто Белорусским.

5. 26 июня 1941 года (на четвертый день войны) на перроне вокзала в исполнении Краснознаменного ансамбля им. А. Александрова впервые прозвучала песня «Священная война».

Ответ:

5.1 Белорусский вокзал.

5.2 1, 3, 4, 5.

Критерии оценки:
1. За верное указание современного названия здания – 2 балла.
2. За каждую верно указанную цифру – 2 балла.
3. Итоговая максимальная оценка – 10 баллов

Задание 6. Изучите представленные материалы эпистолярного жанра и определите:
1) автора письма
2) адресата
3) повод, по которому написано это письмо
Данные занесите в таблицу.

А) Все они должны научиться дрожать перед тобой. Когда же ты, наконец, хватишь рукой по столу и накричишь? Тебя должны бояться. Покажи им, что ты хозяин. Ты владыка, ты хозяин в России. Помни это.

Мы не конституционное государство, слава Богу, будь львом в борьбе против маленькой кучки негодяев и республиканцев, будь Петром Великим, Иваном Грозным и Павлом Первым, сокруши их всех. Будь решительным и более самодержавным, показывай свой кулак там, где это необходимо. Докажи, что ты один властелин и обладаешь сильной волей, будь строгим, это необходимо, они должны слышать твой голос и видеть недовольство в твоих глазах. Они должны, они должны дрожать перед тобой, иначе все будут на нас наседать, и надо теперь же положить этому конец. Довольно, мой дорогой, не заставляй меня попусту тратить слова.

Твоё старенькое Солнышко.

Б) Из молодых членов ЦК хочу сказать несколько слов о Бухарине и Пятакове. Это, по-моему, самые выдающиеся силы (из самых молодых сил), и относительно их надо бы иметь в виду следующее: Бухарин не только ценнейший и крупнейший теоретик партии, он также законно считается любимцем всей партии, но его теоретические воззрения очень с большим сомнением могут быть отнесены к вполне марксистским, ибо в нем есть нечто схоластическое (он никогда не учился и, думаю, никогда не понимал вполне диалектики).

В) Какое Ваше Императорское Величество поучение собственным примером изволили подать нашим французским вертопрахам, нашим умным учителям Сорбонским, нашим эскулапам в школах медицинских! Вы изволили привить себе оспу с меньшими приуготовлениями, нежели иная старица употребляет промывательное. Вашему примеру последовал и Его Императорское Величество, Граф Орлов, дав привить себе оспу, едет на охоту при сильном снеге; не иначе, думаю, поступил бы и Сципион, ежели сия из Аравии вышедшая болезнь в его времена существовала.

Ответ:

	1	2	3
А	**Императрица Александра Федоровна**	**Николай II**	**Осложнение внутри политической ситуации в стране.**
Б	**Ленин**	**«Письмо к съезду»**	**Обращение к съезду партии с оценкой ближайших соратников.**
В	**Вольтер**	**Екатерине II**	**По поводу того, что Екатерина II сделала прививку от оспы.**

Критерии оценки:

1. За каждый верный ответ в таблице - 1 балл.

2. Итоговая максимальная оценка - 9 баллов.

Задание 7. Многие отечественные художники изображали на своих полотнах исторические события. Внимательно изучите репродукции и определите:

А) автора

Б) название произведения искусства

В) событие, которому посвящена картина

Г) дата события

Д) где экспонируется картина (город и музей)

Ответ:

А) Илья Ефимович Репин

Б) «Приём волостных старшин Александром III во дворе Петровского дворца в Москве».

В) Встреча царя с волостными старшинами, представлявшими все губернии России в рамках коронационных торжеств, происходивших в Москве, как духовной столице Российской империи.

Г) Май 1883

Д) Москва, Государственная Третьяковская галерея

Критерии оценки:

1. За верный ответ А) – 1 балл.
2. За верный ответ Б), В), Г) – по 2 балла.
3. За верный ответ Д) – 1 балл.
4. Итоговая максимальная оценка – 8 баллов.

Задание 8. На страницах журнала «Крокодил» отражались важнейшие события Великой Отечественной войны. Рассмотрите изображения и укажите в ответах даты отраженных на карикатурах событий.

А

Б

Ответ:

А. – 1944.

Б. – 1943.

Критерии оценки:

1. За каждый верный ответ – 1,5 балла.
2. Итоговая максимальная оценка – 3 балла.

Задание 9. Цифрами на карте отмечены места, где были сделаны фотографии, расположенные под буквами.

9.1 Соотнесите их.

9.2 Укажите конкретное место и происходившие там события (4-6 предложений к каждой букве).



А



Б





В

Г

Ответ:

9.1

1. Б 2. А 3. Г 4. В

9.2

А_____

_____

Б_____

_____

В_____

_____

Г_____

_____

Критерии оценки:

1. За каждое верное соотнесение точки на карте и фотографии – 1 балл.

2. За каждое верное описание – 2 балла.

3. Итоговая максимальная оценка – 12 баллов.

Задание 10. Прочитайте строки приведенного стихотворения.

10.1 Укажите, кому и где установлен памятник.

10.2 Укажите, кто и кому вручает высшую правительственную награду.

10.3 Укажите годы, когда могли быть написаны эти строки.

10.4 В 3-4 предложениях объясните, что связывает стихотворные строки и фотографии.

Ваших дедов помнит Джамбул,
Ваших прадедов помнит он:
Их ссылали в его аул,
И кандальный он слышал звон.
Пережив четырех царей,
Испытал я свирепость их;
Я хотел, чтоб пала скорей
Петербургская крепость их;

Я под рокот моей струны
Воспевал, уже поседев,
Грозный ход балтийской волны,
Где бурлил всенародный гнев.
Это в ваших стройных домах
Проблеск ленинских слов-лучей
Заиграл впервые впотьмах!
Это ваш, и больше ничей,
Первый натиск его речей
И руки его первый взмах!
Ваших лучших станков дары
Киров к нам привез неспроста:
Мы родня вам с давней поры —
Ближе брата, ближе сестры
Ленинграду Алма-Ата.

Ответ:

10.1 – Народному акыну Казахстана Джамбулу Джабаеву в Ленинграде (ныне Санкт-Петербург)
10.2 – Председатель Президиума Верховного Совета СССР Михаил Иванович Калинин вручает орден Ленина народному акыну Казахстана Джамбулу Джабаеву
10.3 – 1941-1944
10.4_____

_____

_____

Критерии оценки:
1. За верный ответ 10.1 – 1 балл.
2. За верный ответ 10.2 -2 балла.
3. За верный ответ 10.3 – 1 балл.
4. За исчерпывающий с опорой на исторические факты рассказ и четкое объяснение – 6 баллов.
5. Итоговая максимальная оценка – 10 баллов.

Задание 11. Московское метро задумывалось как восьмое чудо света. Поэтому к проектированию и оформлению станций привлекли лучших архитекторов и художников того времени (А.В. Щусев, Б.М. Иофан, А.А. Дейнека, П.Д. Корин, Е.Е. Лансере).

Архитекторы использовали в декоре флорентийскую мозаику, сусальное золочение, бронзовое литье, резьбу по камню, фресковую живопись и многое другое. Эти архитектурные решения были призваны доказать, что при социализме грезы становятся реальностью, что мир культуры и роскоши, прежде доступный только избранным, теперь принадлежит трудовому народу.

Внимательно изучите представленные изображения станций московского метрополитена. В ответ запишите название станции и перечислите те декоративные приемы, которые использованы для ее оформления.

1.

2.

Ответ:

1. Название станции – Киевская.

Декоративные приемы – мозаичные панно, колонны, лепнина.

2. Название станции – Площадь революции.
Декоративные приемы – арки, бронзовые скульптуры

Критерии оценки:
1. За верное указание названия – 1 балл.
За верное название элементов декора (не менее 2-х) – 2 балла.
2. За верное указание названия – 1 балл.
За верное название элементов декора (не менее 2-х) – 2 балла.
3. Итоговая максимальная оценка – 6 баллов.

Задание 12. Заполните таблицу, проставив знаки "+" ("да, утверждение верно") либо "-" ("нет, утверждение ложно").

1. До настоящего времени бал 1903 года, посвященный 300-летию династии Романовых, остается самым известным и красочным праздником в Санкт-Петербурге времени царствования Николая II. Это был маскарад, на котором вся знать Российской империи присутствовала в костюмах «допетровского времени». Эти костюмы дошли до нашего времени запечатленными в фотографиях, которые являются ценным историческим источником.

2. В марте 2023 года стало известно, что международная группа ученых обнаружила загадочный тоннель в пирамиде Хеопса в Гизе. Его длина составляет 9 км, а ширина - более 2км. По словам специалистов, найденное пространство никто не посещал за последние 4500 лет - с момента создания пирамиды в 2560 году до н. э.

3. Среди всех отечественных властителей и членов их семейств по количеству самозванцев, пытавшихся заступить на место безвременно умершего царя, абсолютным рекордсменом является Петр III. По новейшим данным, в одной только России насчитывалось около сорока лже-Петров III.

4. Город Помпеи был разрушен извержением вулкана в 79 году нашей эры и пролежал под пеплом более 1700 лет. В 1748 году Помпеи были найдены, и с тех пор археологи раскрывают тайны города. Несмотря на то, что открытие произошло так давно, Помпеи по-прежнему хранят много секретов, и примерно 7 десятков гектар еще предстоит исследовать.

5. В июле 2023 года команда археологов обнаружила более 125 гробниц и два редких свинцовых саркофага в ходе раскопок на 2000-летнем римском кладбище в Газе. В большинстве захоронений скелеты сохранились практически в целости. По данным специалистов, эта территория была важным торговым маршрутом еще со времен Древнего Египта, когда там жили филистимляне, до эпохи Римской империи и крестовых походов.

6. Письменность майа расшифровал глава американской школы майанистики Эрик Томпсон.

7. Памятник Александру Сергеевичу Пушкину появился в центре Москвы 18 июня 1880 года. Сбор средств на возведение монумента начали в 1860 году по инициативе выпускников Царскосельского лицея, где учился поэт.

8. В июле 2023 года команда археологов обнаружила более 125 гробниц и два редких свинцовых саркофага в ходе раскопок на 2000-летнем римском кладбище в Газе. В большинстве захоронений скелеты сохранились практически в целости. По данным специалистов, эта территория была важным торговым маршрутом еще со времен Древнего Египта, когда там жили филистимляне, до эпохи Римской империи и крестовых походов.

9. С самого начала Великой Отечественной войны коллекцию музея Изобразительных искусств им. А. С.Пушкина решено было отправить в эвакуацию. Немецкие войска начали бомбить столицу уже в июле 1941 года. Всего за десять дней сотрудники Пушкинского музея подготовили к отправке больше 100 тысяч картин, статуй, монет, исторических документов. Каждый день упаковывали примерно по 11 тысяч экспонатов. Упаковывали очень тщательно, путь предстоял неблизкий: первая очередь на поезде должна была уехать в Новосибирск. Использовали все, что могли найти: рваную бумагу, вату, мешки, коробки, деревянные ящики –

папирусы застекляли, каждую ценную монету клали в бумажный пакет, греческие вазы набивали бумагой. Подобного опыта у музейных сотрудников не было, решения надо было принимать быстро. Сотрудница музея Анна Замятина будет позже так вспоминать это время: «Складывалось ощущение, будто их укладывали в гроб». 15 июля 1941 года первая очередь покинула город, а с 22-го начались массированные авианалеты на Москву. Возвращаться обратно экспонаты будут только через три года – в 1944-м.

10. В 1772 году в Кронштадт на судне «Ласточка» в 17 деревянных ящиках прибыл драгоценный груз, отправленный из Франции знаменитым философом Дени Дидро. Сам страстный любитель искусства, он купил для русской императрицы картины из знаменитого собрания Жозефа-Антуана Кроза и барона де Тьера. Финансист Пьер Кроза создал коллекцию из 400 картин, 19 000 рисунков, 1 500 резных камней, и отныне гости Екатерины II имели возможность на её вечерах-«Эрмитажах» - любоваться шедеврами мировой живописи.

Ответ:

1	2	3	4	5	6	7	8	9	10
+	-	+	-	+	-	+	-	+	+

Критерии оценки:
1. За каждый верный ответ в таблице – 0,5 баллов.
2. Итоговая максимальная оценка – 5 баллов.

ИТОГО за всю работу максимальный балл = 100